Ułamki na paskach

Pokoloruj wskazaną część każdego paska równych pól.

$\frac{3}{4}$



$\frac{2}{5}$



$\frac{3}{6}$



$\frac{4}{7}$





Kolorowankarnia.
www.kolorowankarnia.pl