Ułamki na paskach

Pokoloruj wskazaną część każdego paska równych pól.

$\frac{3}{10}$



$\frac{1}{6}$



$\frac{1}{3}$



$\frac{3}{8}$





Kolorowankarnia.
www.kolorowankarnia.pl