Ułamki na paskach

Pokoloruj wskazaną część każdego paska równych pól.

$\frac{6}{8}$



$\frac{3}{9}$



$\frac{2}{4}$



$\frac{5}{6}$





Kolorowankarnia.
www.kolorowankarnia.pl