Liczba 17 w dwóch ramkach

Jedna pełna ramka mieści dziesięć pól.
Pokoloruj łącznie tyle pól, ile oznacza duża liczba.

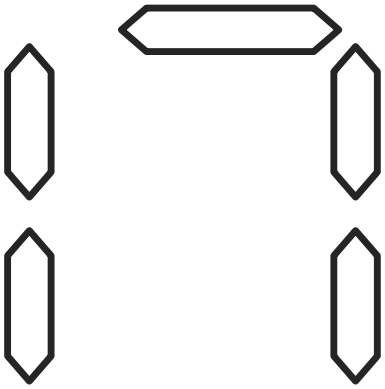

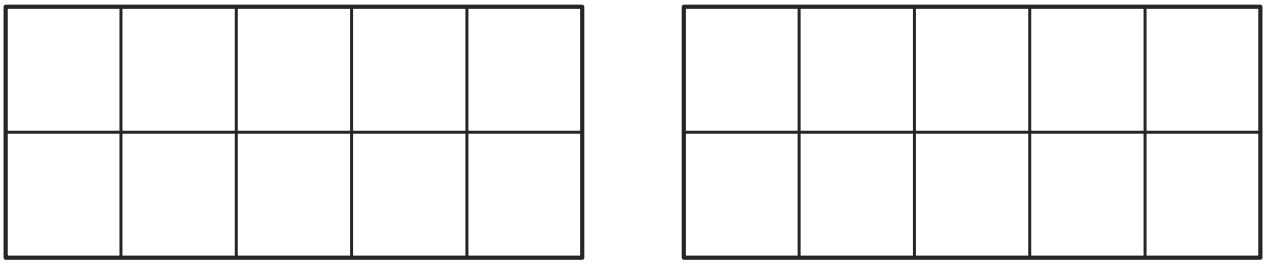

Z ilu dziesiątek i jedności składa się ta liczba?

dziesiątki

jedności

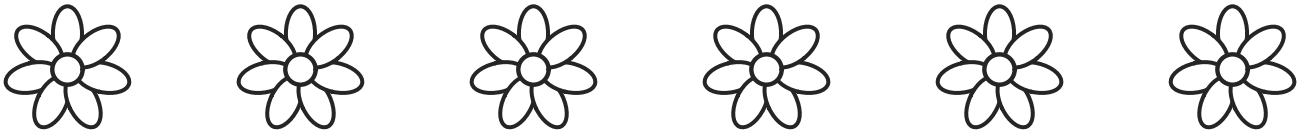

Kolorowankarnia.
www.kolorowankarnia.pl